Стартовая диагностическая работа по изобразительному искусству
1 класс
Вариант1

1. **Раскрась кружочки цветами, которые названы ниже:** **____ б**

Жёлтый	Красный	Синий	Оранжевый	Зелёный	Фиолетовый	Голубой

2. **Из каких цветов получается?**

		Фиолетовый.

____б

3. **Как расположены цвета в радуге? Соедините цифры с названием цвета.**

Красный	2
Оранжевый	3
Жёлтый	4
Зелёный	1
Голубой	5
Синий	7
Фиолетовый	6

____б

4. **Исправь то, что перепутал художник.**





____б

6. На что похожи кляксы? Дорисуй их.



Итого: _____ б

Стартовая диагностическая работа по изобразительному искусству
1 класс

Вариант2

1. Раскрась кружочки цветами, которые названы ниже: **____ б**

Красный Синий Жёлтый Оранжевый Фиолетовый Зелёный Голубой

2. **Из каких цветов получается?**

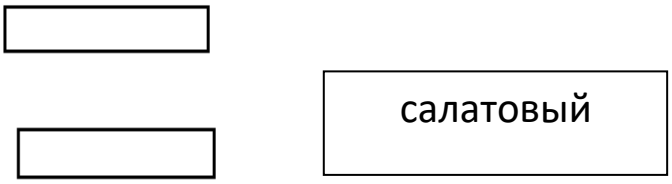

____б

3. Исправь то, что перепутал художник.



4. Как расположены цвета в радуге? Соедините цифры с названием цвета.

Красный	2
Оранжевый	3
Жёлтый	4
Зелёный	1
Голубой	5
Синий	7
Фиолетовый	6

____б

5. На что похожи кляксы? Дорисуй их.



____б

6. Соедините одинаковые половинки ваз.



Итого: _____б

1 класс
Демоверсия

1. Раскрась кружочки цветами, которые названы ниже: **____ б**

Фиолетовый	Синий	Голубой	Оранжевый	Зелёный	Жёлтый	Красный

2. **Из каких цветов получается?**

оранжевый

____б

3. Как расположены цвета в радуге? Соедините цифры с названием цвета.

Синий	2
Красный	3
Жёлтый	4
Фиолетовый	1
Голубой	5
Оранжевый	7
Зелёный	6

____б

4. Соедините одинаковые половинки ваз.



____б

5. На что похожи кляксы? Дорисуй их.



5. Исправь то, что перепутал художник.



Итого: б

Итоговая диагностическая работа по изобразительному искусству

1 класс
Вариант1

1. **Произведение искусства, выполненное красками, называется**

а) рисунок;
б) живопись;
в) портрет. **____б**

2. **Как называется зеркальное расположение частей (слева и справа) относительно середины?**

а) симметрия;
б) точка;
в) линия. **____б**

3. **Изображение фигуры человека или группы людей называется**

а) портрет;
б) пейзаж;
в) рисунок. **____б**

4. **Художник А. Саврасов написал картину**

а) «Грачи прилетели»;
б) «Осень»;
в) «Зима».

____б

5. **Определите три основных цвета в красках –**

а) зеленый, синий, красный;
б)зеленый, белый, красный;
в) зеленый, белый, синий. **____б**

6. Выбери и подчеркни материалы, которыми работает художник:

а) лопата, удочка, грабли

б) краски, карандаши, мелки. **____б**

7. Определи и нарисуй геометрическую форму предмета.



____б

8. Укрась шарфик для мамы, используя знакомые тебе орнаменты.

____б

Итоговая диагностическая работа по изобразительному искусству
1 класс
Вариант 2

1. Работа, выполненная карандашом, углём, тушью называется

а) портрет;
б) рисунок;
в) живопись. **____б**

2. Как называется зеркальное расположение частей (слева и справа) относительно середины?

а) точка;
б) линия;
в) симметрия;

____б

3. Картина, изображающая природу, называется

а) живопись;
б) рисунок;
в) пейзаж. **____б**

4. Человек, создающий произведения искусства –

а) художник;
б) учитель;
в) продавец. **____б**

5. Небольшой кусок бумаги, стекла, картона на котором смешиваются краски во время работы –

а) палитра;
б) мольберт;
в) этюдник. **____б**

6. Раскрась ковер, используя знакомые тебе орнаменты.

____б

6. Художник А. Саврасов написал картину

а) «Осень»;
б) «Зима»;
в) «Грачи прилетели».

____б

8. Определи и нарисуй геометрическую форму предмета.

____б

Итоговая диагностическая работа по изобразительному искусству
1 класс
Демоверсия

1. Произведение искусства, выполненное красками, называется

а) портрет;
б) живопись;
в) рисунок. **____б**

2. Подчеркни правильный ответ

а) Красный + синий = оранжевый
б) Синий + жёлтый = зеленый
в) Красный + жёлтый = синий **____б**

3. Картина, изображающая природу, называется

а) живопись;
б) рисунок;
в) пейзаж. **____б**

4. Небольшой кусок бумаги, стекла, картона на котором смешиваются краски во время работы –

а) мольберт;
б) палитра;
в) этюдник. **____б**

6. Художник А. Саврасов написал картину

а) «Грачи прилетели»;
б) «Осень»;
в) «Зима».

____б

6. Выбери и подчеркни материалы, которыми работает художник:

а) лопата, удочка, грабли

б) краски, карандаши, мелки. **____б**

7. Определи и нарисуй геометрическую форму предмета.

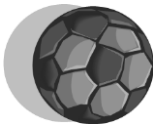



____б

8. Укрась платок для мамы, используя знакомые тебе орнаменты.

____б

Критерии оценивания

Задание	Критерии оценивания	Максимальный балл
1	Выбран правильный ответ (б) – 1 **балл**	1 балл
2	Выбран правильный ответ (б) - **1 балл**	1 балл
3	Выбран правильный ответ (а) - **1 балл**	1 балл
4	Выбран правильный ответ (а) - **1 балл**	1 балл
5	Выбран правильный ответ (а) - **1 балл**	1 балл
6	Выбран правильный ответ (в) - **1 балл**	1 балл
7	Выбран правильный ответ (а) - **1 балл**	1 балл
8	Выбран правильный ответ (а) - **1 балл**	1 балл
9	Выбран правильный ответ (б) - **1 балл**	1 балл
10	Выбран правильный ответ (а) - **1 балл**	1 балл
11	За каждый правильный ответ – **1 балл**	4 балла
12	Использованы геометрические и растительные орнаменты, правильно переданы пропорций, орнамента	1 балл
13	За каждый правильный ответ – **1 балл**	5 баллов
14	Выбран правильный ответ (б) - **1 балл**	1 балл

Максимальное количество - 21 балл

Оценивание работы

«Высокий уровень» - 18-21 балл (от 85 до 100%)

«Средний уровень» - 10-17 баллов (от 45 до 84%)

«Низкий уровень» - 0-9 баллов (менее 45%)